ÓMNIBUS

SUPUESTOS. ANÁLISIS. DECISIONES.

EJERCICIOS PARA PRACTICAR

RAZONAMIENTO APLICADO A SITUACIONES REALES.

LEE. ANALIZA. DECIDE.



10 SUPUESTOS
Situaciones prácticas variadas y realistas.

20 PREGUNTAS POR SUPUESTO
Evalúa tu comprensión y toma de decisiones.

TIEMPO ORIENTATIVO 10 MINUTOS POR SUPUESTO
Gestiona tu tiempo. Decide tu estrategia.

LEE
Comprende la situación.

ANALIZA
Identifica los datos clave.

RELACIONA
Conecta ideas y variables.

EVALÚA
Valora las opciones disponibles.

DECIDE
Elige la mejor respuesta.

MEJORA
Entrena tu mente. Aumenta tu precisión.

PRACTICA. PIENSA. RESUELVE.

PREPÁRATE PARA CUALQUIER ESCENARIO.

PSICOTÉCNICOS
ÓMNIBUS

TIEMPO POR EJERCICIO: ¿CUÁNTO TIENES?

El tiempo disponible en los ómnibus psicotécnicos depende del examen y del cuerpo al que vayas dirigido. Estos son los tiempos medios habituales por ejercicio.

1 TIEMPO MEDIO POR EJERCICIO SEGÚN EL TIPO DE EXAMEN

TIPO DE EXAMEN	TIEMPO MEDIO POR EJERCICIO
Policía Local	25 – 40 segundos
Policía Nacional	20 – 35 segundos
Guardia Civil	20 – 30 segundos
Bomberos	15 – 30 segundos
Administrativo	30 – 45 segundos
Psicotécnicos de empresa	20 – 40 segundos

2 ¿CUÁL ES LA MEDIA EN ÓMNIBUS?

Los ómnibus suelen tener entre 40 y 80 preguntas para realizar en 15 – 30 minutos, por lo que la velocidad media aproximada está entre:

- **15 SEGUNDOS POR PREGUNTA** — Muy exigente
- **20 SEGUNDOS POR PREGUNTA** — Nivel habitual en oposiciones
- **30 SEGUNDOS POR PREGUNTA** — Nivel moderado

3 LO QUE HACEN LOS OPOSITORES CON EXPERIENCIA

< 15 SEGUNDOS
Si no ves el patrón, la dejas.

15 – 20 SEGUNDOS
Si ya has detectado la estrategia, la resuelves.

> 25 SEGUNDOS
Probablemente sea una pregunta "trampa" y conviene saltarla.

4 ENTRENAMIENTO RECOMENDADO

NIVEL 1 (APRENDIZAJE)	Sin tiempo. Entender cada tipo de ejercicio.	SIN TIEMPO
NIVEL 2 (RITMO)	Practica con límite de tiempo para ganar fluidez.	30 SEGUNDOS POR PREGUNTA
NIVEL 3 (SIMULACIÓN REAL)	Simula las condiciones reales del examen.	20 SEGUNDOS POR PREGUNTA

OBJETIVO

Responder correctamente al 80 – 90 % y aprender a dejar preguntas.

5 CLASIFICACIÓN DE ÓMNIBUS POR VELOCIDAD

ÓMNIBUS INICIACIÓN	45 SEGUNDOS POR PREGUNTA
ÓMNIBUS INTERMEDIO	30 SEGUNDOS POR PREGUNTA
ÓMNIBUS AVANZADO	20 SEGUNDOS POR PREGUNTA
ÓMNIBUS ÉLITE	15 SEGUNDOS POR PREGUNTA

CONSEJO FINAL

No se trata de saberlo todo, sino de gestionar tu tiempo. La práctica constante y la estrategia son clave para alcanzar un buen resultado.

¡ENTRENA, ANALIZA Y SUPÉRATE! LA PRÁCTICA TE HARÁ IMBATIBLE.

CADA RETO ES UNA OPORTUNIDAD.
SUPÉRATE.

1. Seleccione la opción que resulta de girar la figura modelo 135°.

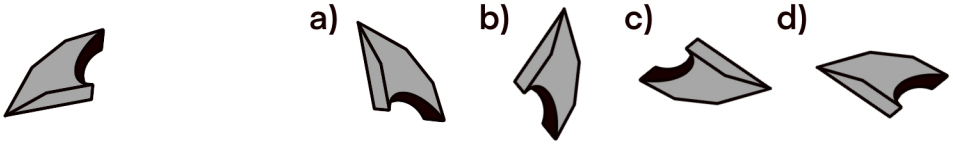

2. Selecciona la opción que continúa la serie.

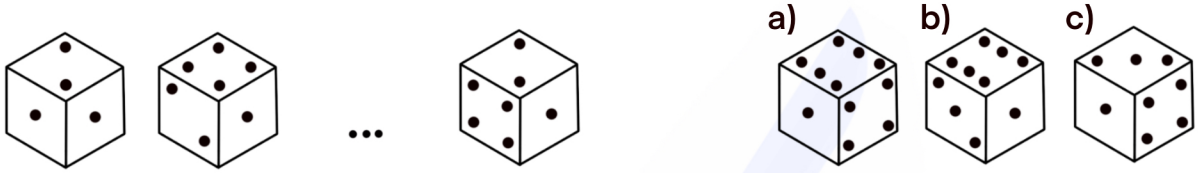

3. Indica la opción que continúa la serie alfanumérica.

B - 3 - E - 5 - J - 4 - N - 2 - O - 6 ... a) V b) U c) T

4. Seleccione la opción que es diferente al resto.

a)

JFFHIONVDHSHK
JBFHIGDTUJHLFF
HUGFEYJHHHJG
HRSDULKHFFDD

b)

JFFHIONVDHSHK
JBFHIGDTUJHLFF
HUGFEYJHHHJG
HRSDULKHFFDD

c)

JFFHIONVDHSKK
JBFHIGDTUJHLFF
HUGFEYJHHHJG
HRSDULKHFFDD

5. Continúa la serie, teniendo en cuenta opciones múltiples de respuesta.

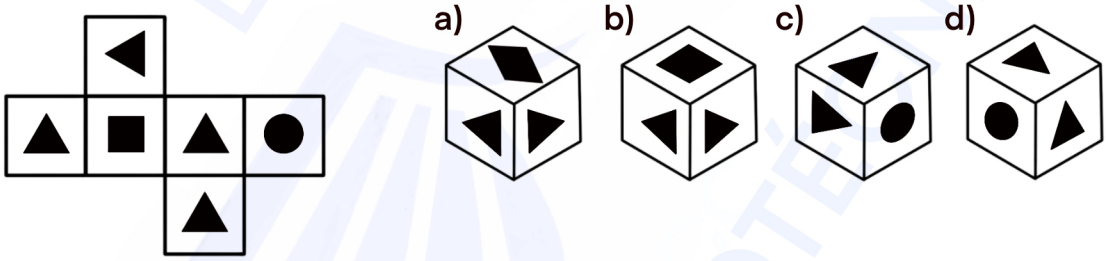

6. Indíquen cuántos círculos hay en el interior del recuadro.



a) 8 b) 9 c) 11 d) 10

7. Seleccione la opción que no concuerda con el resto.

a) Piscina b) Aljibe c) Lago d) Presa e) Alberca

8. Selecciona la opción que continúa la serie.

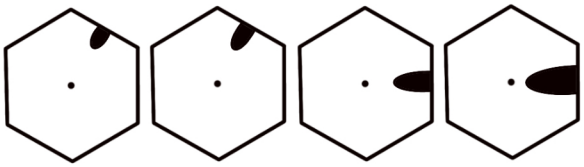

a) b) c)

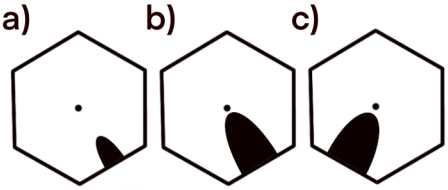

9. Indique cuántos "5" van precedidos del número "6".

78786587346589659
87326580654356890
98653356986598659
98426579654365898
98986543567965439

a) 14 b) 13 c) 15 d) 16

10. Indica que opción no cumple con el patrón.

a) b) c) d)

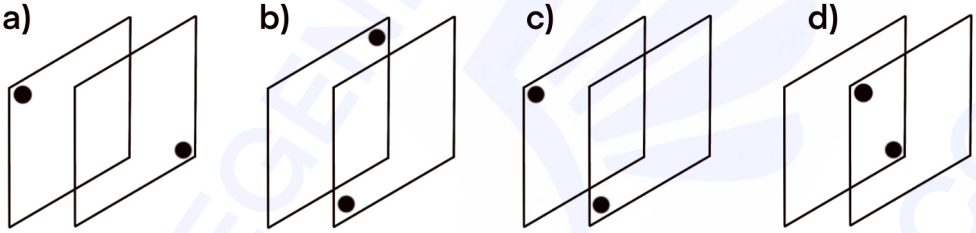

11. Qué palabra no encaja.

a) Trigo b) Maíz c) Cebada d) Avena e) Lenteja

12. Indica la opción que continúa la serie.

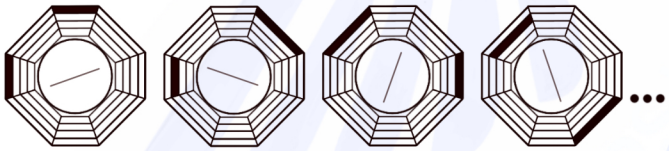

a) b) c)

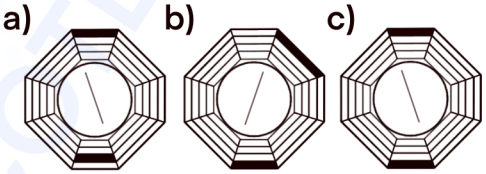

13. Elija la opción que continúa la serie.

8 - 11 - 13 - 14 - 17 - 19 - 20 ... a) 26 b) 23 c) 25

14. Indica la opción correcta a partir del desplegado.

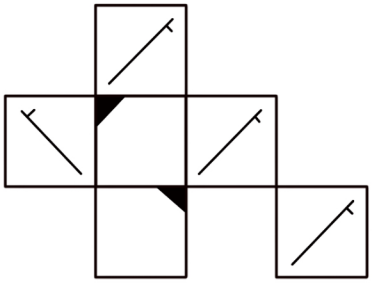

a) b) c)

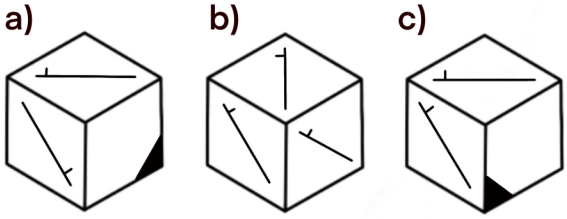

15. Observa el recuadro e indica el numero de triangulos que hay en su interior.



a) 8 b) 6 c) 7 d) 9

16. Selecciona la opción que continúa la serie.

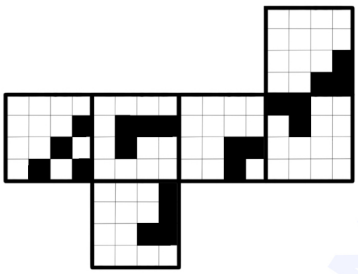

a) b) c)

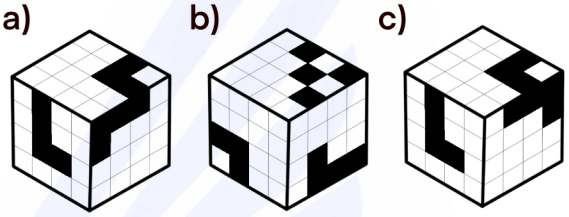

17. Continúa la siguiente serie alfanumerica.

B - 3 - F - 2 - I - 4 - N - 3 - Q - 2 ... a) V b) U c) T

18. Selecciona la opción que resulta de girar la figura modelo 270°



19. Continúe la serie.



20. Elija la opción a partir del desplegado.

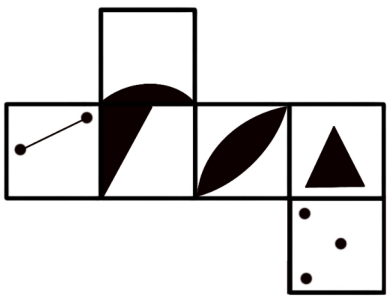

a) b) c)

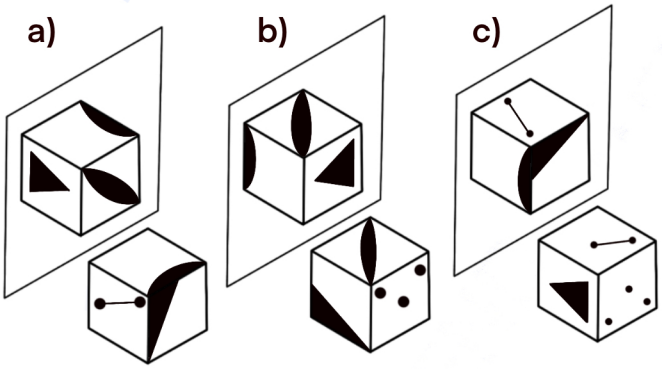

SOLUCIONES

1B	11E
2B	12C
3B	13B
4C	14C
5BD	15B
6B	16C
7C	17C
8B	18D
9B	19B
10C	20B